Тема занятия:

«Число 16»

Педагог: Панина Елена Васильевна

Объединение: «Малышок»

Учебный курс «Математические представления» группа №2

Повторим немного

Повторим состав числа

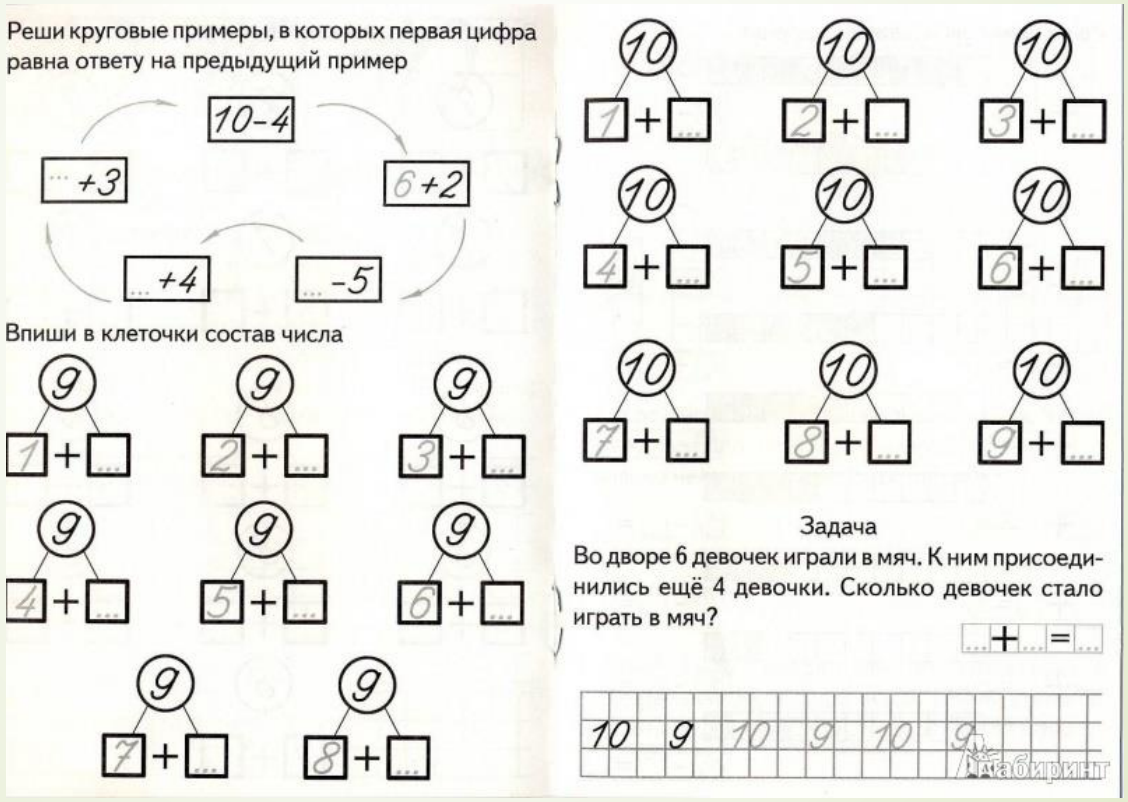

Реши круговые примеры, в которых первая цифра равна ответу на предыдущий пример

10–4

... +3

6 +2

... +4

... –5

Впиши в клеточки состав числа

9 = 1 + ...; 9 = 2 + ...; 9 = 3 + ...; 9 = 4 + ...; 9 = 5 + ...; 9 = 6 + ...; 9 = 7 + ...; 9 = 8 + ...

10 = 1 + ...; 10 = 2 + ...; 10 = 3 + ...; 10 = 4 + ...; 10 = 5 + ...; 10 = 6 + ...; 10 = 7 + ...; 10 = 8 + ...; 10 = 9 + ...

Задача

Во дворе 6 девочек играли в мяч. К ним присоединились ещё 4 девочки. Сколько девочек стало играть в мяч?

... + ... = ...

10 9 10 9 10 9

Лабиринт

Повторим о числе 15

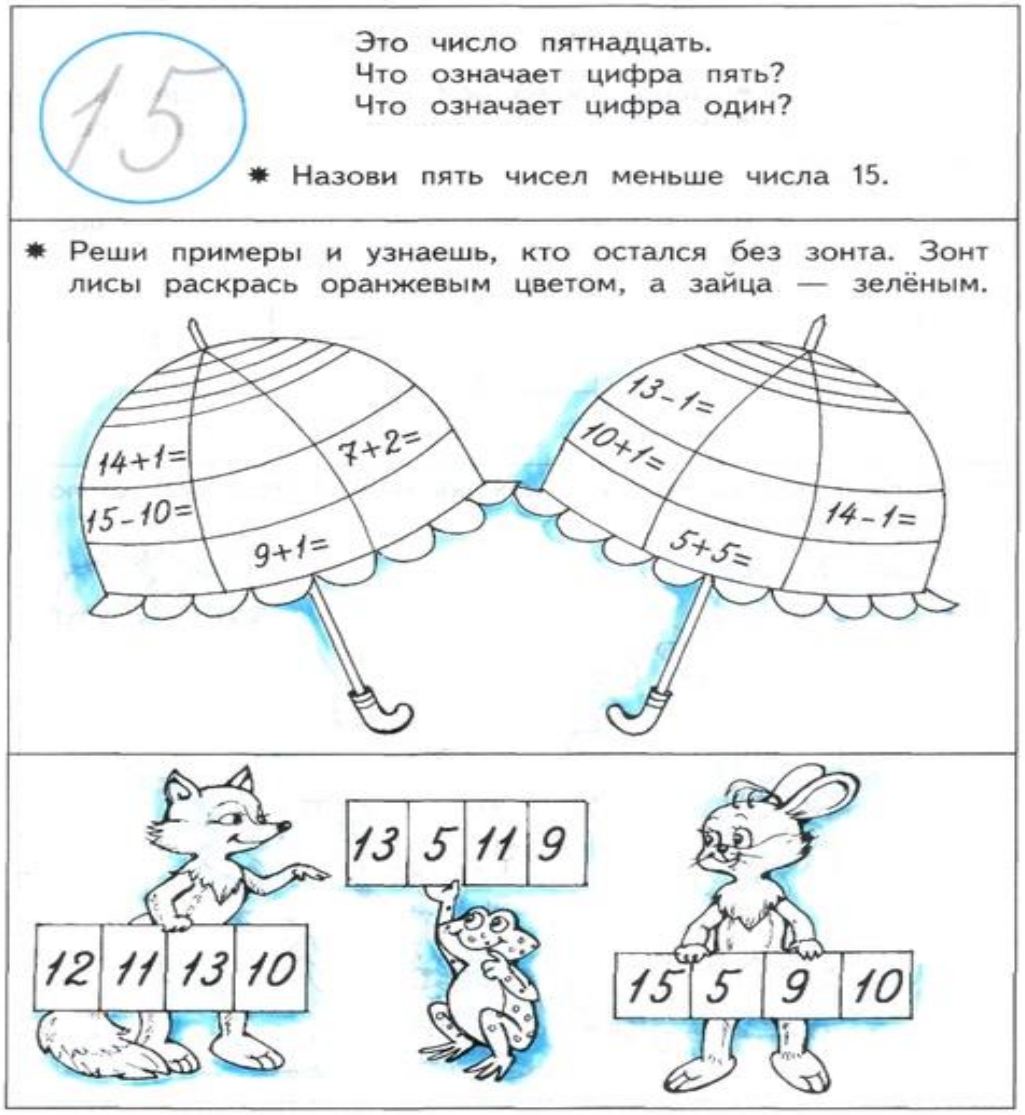

15

Это число пятнадцать.
Что означает цифра пять?
Что означает цифра один?

✱ Назови пять чисел меньше числа 15.

✱ Реши примеры и узнаешь, кто остался без зонта. Зонт лисы раскрась оранжевым цветом, а зайца — зелёным.

14+1=
7+2=
15-10=
9+1=

13-1=
10+1=
14-1=
5+5=

12 11 13 10

13 5 11 9

15 5 9 10

17

http://www.liveinternet.ru/users/maknika/

Работа по тетради стр. 33

- 1.Выполнить 1 задание.

  Продолжить рисунок.

2.Выполнить 2 задание.

  Обведи линией 16 пчёл.

  Сколько пчёл остались за линией?

3.Выполнить 3 задание.

  Назвать нарисованные предметы. Заполнить таблицу.

4.Выполнить 4 задание.

  Сосчитай, сколько шишек на картинке?

  Подпишите карандашом каждую шишку по порядку.

  Выполните задание.

1. Выполнить задания на стр. 34
2. Состав числа 16.

Самостоятельно выполнить задание:

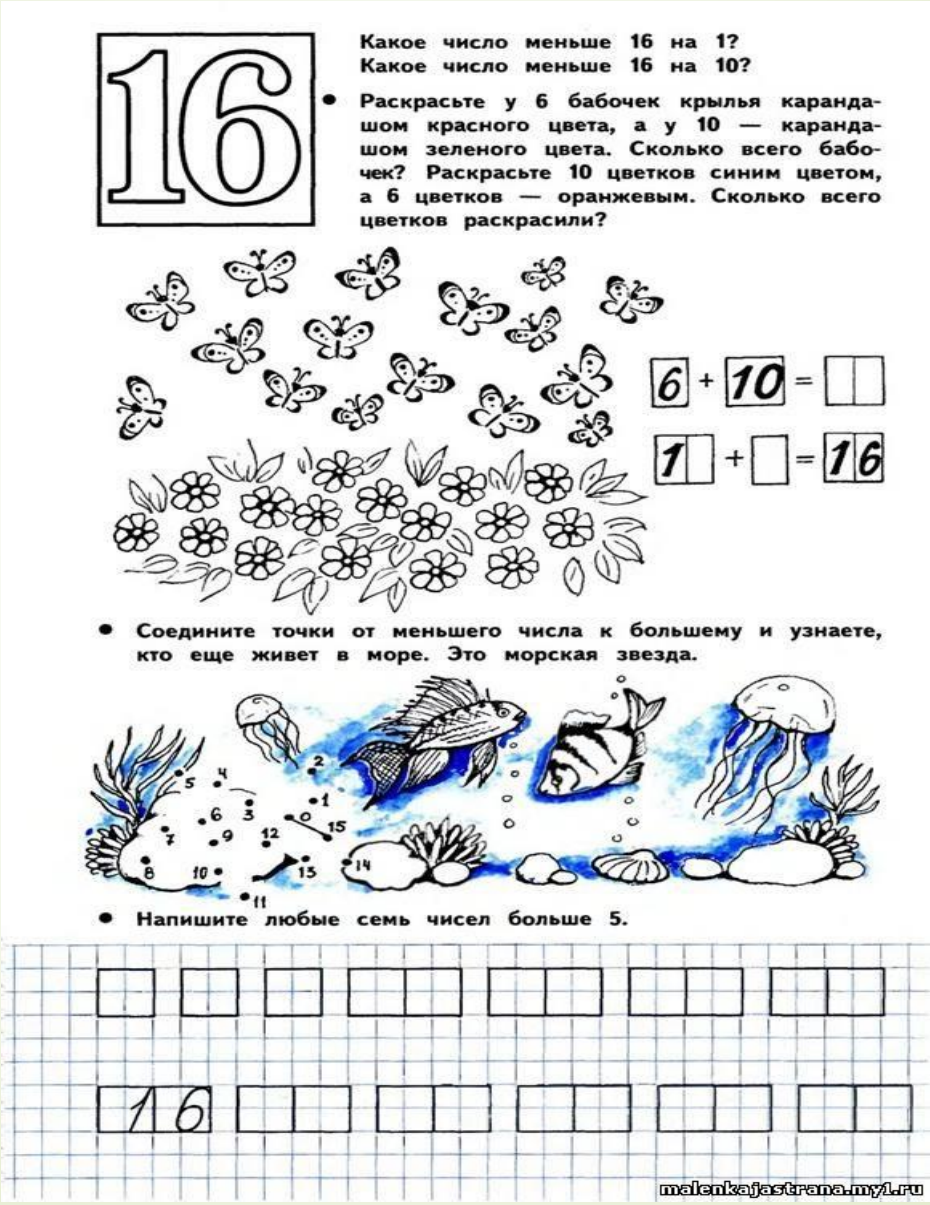

16

Какое число меньше 16 на 1?
Какое число меньше 16 на 10?

- Раскрасьте у 6 бабочек крылья карандашом красного цвета, а у 10 — карандашом зеленого цвета. Сколько всего бабочек? Раскрасьте 10 цветков синим цветом, а 6 цветков — оранжевым. Сколько всего цветков раскрасили?

6 + 10 = ☐☐

1☐ + ☐ = 16

- Соедините точки от меньшего числа к большему и узнаете, кто еще живет в море. Это морская звезда.

- Напишите любые семь чисел больше 5.

16

malenkajastrana.my1.ru

Спасибо за занятие